DOEN!

KPJ Nederwetten

Wèttegij't?!

2016

Team:

_____

JOKER

QUIZBOEK

Het team!

Het Team

Verzin met je team een zelfbedachte ludieke teamnaam!

_____

TEAMFOTO

Uitleg Quizboek

- De vragen bestaan uit open vragen (soms aangevuld met sub-vragen), meerkeuzevragen en actievragen. Antwoorden op de vragen dienen ingevuld te worden in het quizboek. Aan niet- of slecht leesbare antwoorden worden geen punten toegekend. Bij meerkeuzevragen dient het juiste antwoord omcirkeld te worden.
- Voor elke categorie, behalve de geheime opdracht, mogen alle denkbare hulpmiddelen worden gebruikt om het juiste antwoord op de vraag te vinden, zoals internet, encyclopedie, telefoon, rekenmachine, buren en/of andere vraagbakens.
- Alleen teams die dit quizboek en toebehoren op tijd (tussen 23.00 en 23.15 uur, 4 maart 2016), persoonlijk en op juiste wijze hebben ingeleverd bij de organisatie in de Koppelaar te Nederwetten, strijden mee om de titel “de slimste straat van Nederwetten” en de hoofdprijs.
- Zorg er voor dat elke bladzijde van het quizboek voorzien is van je teamnummer en dat de bladzijden op de juiste volgorde weer ingeleverd worden.
- Ieder team mag een joker inzetten op één van de categorieën, behalve op de geheime opdracht en de sponsorvragen. De punten van de categorie waarop de joker is ingezet, tellen dubbel! Geef op het titelblad van het quizboek aan op welke categorie jouw team de joker inzet.
- Naast het maken van het quizboek wordt er ook een geheime opdracht uitgevoerd. Kijk hiervoor in het quizboek.
- Elk stratenteam krijgt de laatste vragen / opdracht te horen op de feestavond, hier kunnen dus de laatste belangrijke punten worden verdiend.
- De uitslag en prijsuitreiking van de quiz vindt plaats op de Wèttegij’t-DOEN! feestavond vanaf 20.00 uur op zaterdag 12 maart 2016 in de Koppelaar te Nederwetten.
- De uitslag is bindend en er kan niet over gediscussieerd worden. Bij twijfel, onduidelijkheid beslist de organisatie. Ingeleverde quizboeken blijven eigendom van DOEN!
- De juiste antwoorden op de Wèttegij’t-quizvragen worden na de feestavond op de DOEN! website, bekend gemaakt.
- Deelname aan de Wèttegij’t-quiz is geheel op eigen risico, zie ons reglement op de website van DOEN!

Onze sponsors

Sponsors!

goesting
restaurant · bar · terras

RUDY MANDERS
Timmerwerken
Hoekstraat 16
5674 NP Nuenen
info@rudymanders.nl
www.rudymanders.nl
Tel: 040-8200397
Fax: 040-2952675

Soetbeeck
schilderwerken
zandstraat 2
5674 NM nederwetten
info@soetbeeck.nl
eric: 06 520 23 533
wout: 06 516 79 247

UNIVERSELE ELASTIEKEN
IN ALLE MATEN, GESCHIKT VOOR OA:
PARTYTENTEN,
ZEILEN,
MARKTKRAMEN,
ZEILBOTEN,
PLEZIERJACHTEN,
SPANDOEKEN
AD MANDERS 06-23 69 44 34
A.MANDERS01@ONSNET.NU
HOEKSTRAAT 16 5674 NP NUENEN
ZEIL ZONDER RINGEN
VASTMAKEN MET KWIKCLIPS

AUTOBEDRIJF
VAN DEN BERK
ALLE MERKEN • VW & AUDI SPECIALIST
ONDERHOUD • REPARATIE • APK • IN- & VERKOOP • AIRCO SERVICE • AUTO- & RUITSCHADE
VAN LEEUWENHOEKWEG 7 • 5482 TK SCHIJNDEL • TEL. 073 549 57 16
WWW.AUTOBEDRIJFVANDENBERK.NL

Pedicure
Gini van der Velden
Hoekstraat 49
Nederwetten
Telefoonnummer
040 2833553
06 10050340

– CAFÉ –
Ons Dorp

Swinkels Cateringservice
Catering op maat
06-30 47 71 56 • www.hswinkels.nl • Son en Breugel

Categorie 1: Terug naar school

1. Redekundig ontleden. Verdeel de zinnen in zinsdelen en benoem de functie.

Tip: Een zinsdeel is een eenheid die een bepaalde functie heeft in de zin.

- De moeilijke quizvragen (onderwerp) / zullen (persoonsvorm) / door de verschillende teams (meewerkend voorwerp) / gemaakt worden (werkwoordelijke gezegde).
- Het kleine Nederwetten (onderwerp) / zal (persoonsvorm) / vanavond (bijwoordelijke bepaling) / groots (lijdend voorwerp) / zijn (werkwoordelijke gezegde).
- Jullie (onderwerp) / leveren (persoonsvorm) / het quizboek (lijdend voorwerp) / vanavond (bijwoordelijke bepaling) / bij de organisatie (meewerkend voorwerp) / in. (werkwoordelijk gezegde)
- Het (onderwerp) / zal (persoonsvorm) / volgende week (bijwoordelijke bepaling) / een spannende avond (lijdend voorwerp) / worden. (werkwoordelijk gezegde)

2. Wiskundige formule. Teken de onderstaande lijnen.

Y=2x-1 met x tussen -3 en 4

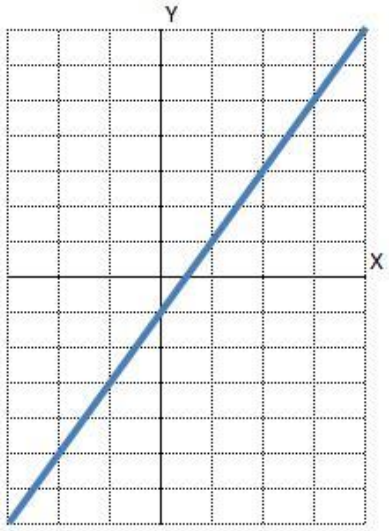

Y=-0.5x+2 met x tussen -3 en 6

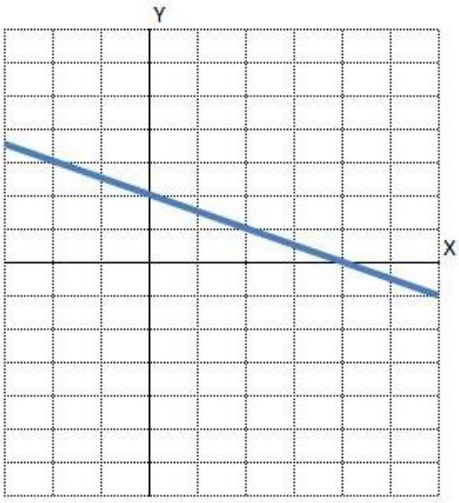

Bepaal de richtingscoëfficiënt van de volgende lijnen.

Y=2x-1 2

X+Y=1 - 1

3. Noem de hoofdsteden die worden aangegeven in deze afbeeldingen.

New Delhi

Kigali

Quito

Luxemburg

Jerevan

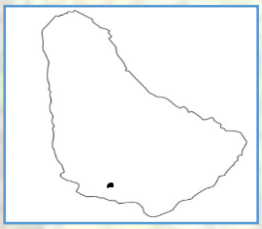

Bridgetown

4. Arceer de fout geschreven woorden met een gele markeerstift.

Zowel in België als in Nederland bestaat er veel belangstelling voor de eigen geschiedenis. Jaarlijks verscheinen honderden boeken en artikelen als resultaat van de vakmatige geschiedbeoefening. Onder het breede publiek is er een levendige interresse voor herdenkingen, tentoonstellingen en gelegenheidspublicaties. Goed leesbare overzichtswerken van een beperkte omvang, die de resultaten van het historisch onderzoek op een bevattelijke manier aan studenten en een ruimer publiek proberen over te dragen, zijn echter schaars. Zo was een een-delige geschiedenis van Nederlanden lange tijd niet beschikbaar. De behoefte hieraan bestaat nog steeds en daarom wordt hier een grondig herwerkte en ge-actualiseerde uitgave aangeboden van wat ondertussen is uitgegroeid tot een standaardwerk.

De optie om de Nederlanden als onderwerp te nemen steunt op een bescheiden twintigste eeuwse traditie, die oorspronkelijk gevoed werd door een Groot-Nederlandse geschiedenisopvatting maar die later een minder ideologische en meer pragmatische uitdrukking kreeg in twee veeldelige Algemene Geschiedenissen der Nederlanden. Er bestaan voldoende redenen om de nederlanden, het huidige Belgie en Nederland, in eenzelfde hystorisch verhaal te betrekken. Wel is het zo dat de Nederlandse gewesten tot in de zestiende eeuw geen duidelijk afgebakende grenzen kenden en dat zij ook slechts voor korte perioden een politieke eenheid vormden. Toch vertoonden zij in meer dan één opzicht gemeenschappelijke kenmerken en maakten zij gelijksoortige ontwikkelingen door, waardoor zij zich onderscheidden van de omringde landen.

5. Wat betekenen deze verkeersborden? Noem de officiële naam en nummer.

1

2


3

4

5

1. Bord L20: Uitwijkplaats rechts van de weg.

2. Bord E12: Parkeergelegenheid ten behoeve van overstappers op het openbaar vervoer

3. Bord F09: Einde van alle door verkeersborden aangegeven verboden en adviezen op een electronisch signaleringsbord

4. Bord C10: Gesloten voor motorvoertuigen met aanhangwagen.

5. Bord J1003: Waarschuwing voor overstekende eenden

6. Welke woorden van het leesplankje worden hier afgebeeld?

Does

Mies

Gijs

Jet

Kees

7. Teken een overhoekse kubus.

Bij een overhoekse kubus liggen de voorste en achterste verticaal in elkaars verlengde. De vluchtpunten links en rechts liggen even ver weg (elk op minimaal 2x beeldformaat afstand) en de afbeelding is symmetrisch qua hoekverdraaiingen en verkortingen.
Uit het hoofd tekenend kan worden gestart met het diagonale vlak.
Verhoudingen]: 1,5 bijna (diagonaal = v'2=ruim 1,4); toe te passen hoeken volgen uit de (globale) locatie van één vluchtpunt op minimaal 2 beeldbreedte's afstand.

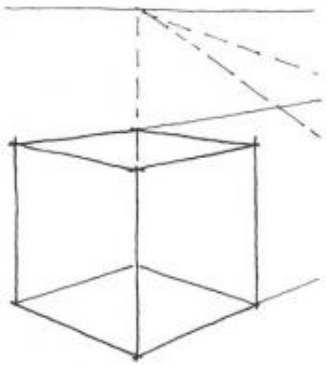
Overhoeks

8. Geschiedenis. Welke oorlog was er gaande in deze tijd:

1. 1880-1881
2. 1568-1648
3. 1950-heden
4. 1955-1975

1: Eerste Boerenoorlog / Eerste vrijheidsoorlog

2: Tachtigjarige oorlog

3: Noord- en Zuid-Korea

4: Vietnam Oorlog

9. Welke technieken zijn hieronder afgebeeld?



Frivolité

Kantklossen

Sprang

Macramé

10. Rekenverhaal

In Nederwetten wonen veel liefhebbers van heerlijke taart! De verkoop van de oranje slagroomtaarten daalt erg snel. Elke week worden er 4 slagroomtaarten minder verkocht dan in de week ervoor. Elke slagroomtaart betekent 10 minuten werk voor de DOEN!-bakkers. Natuurlijk stijgt de verkoop van de speciale blauwe Wèttegij't Quiz-taarten. Elke week worden er 8 Quiz-taarten meer verkocht dan de week ervoor. Het maken van een Wèttegij't Quiz-taart kost de DOEN!-bakkers 7,5 minuten werk.

Hoeveel minuten meer of minder rust hebben de DOEN!-bakkers na 20 weken?

400 minuten minder rust.

Categorie 2: Muug wôrre!

1. Bij welke sporten worden onderstaande attributen gebruikt? Noem per attribuut de bijbehorende sport.

Bowls

Cricket

Hurling

Radball

2. Wie zijn deze oude bekenden? Vul de spelerskaarten in.

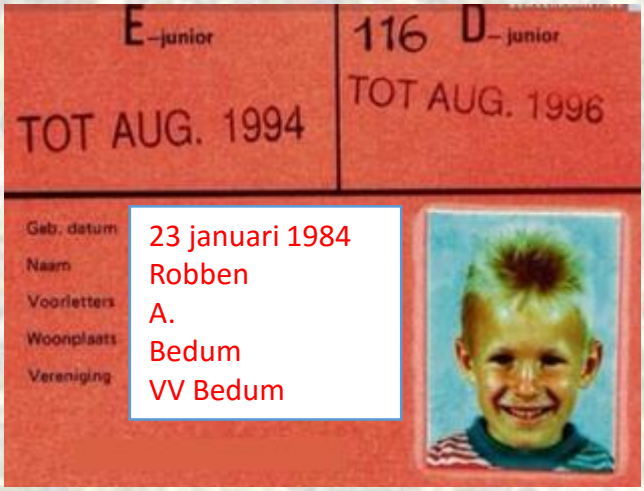

23 januari 1984
Robben
A.
Bedum
VV Bedum

Marieke
Van Genugten
28 januari 1986
KPJ Nederwetten
44

3. Witnie en Kennie gaan op een zonnige vrijdagmiddag een rondje van 9-holes spelen op de Golfbaan van DOEN! Kennie speelt de holes van 1 t/m 9 vanaf de gele tee markers. Zijn 'playing handicap' is 14.
Zijn scores van deze vrijdagmiddag zijn:

Hole	Par	Aantal slagen	Stroke index	Hole	Par	Aantal slagen	Stroke index	Hole	Par	Aantal slagen	Stroke index
1	5	6	8	4	4	4	1	7	3	4	5
2	3	5	4	5	5	7	3	8	3	4	7
3	4	6	6	6	4	8	2	9	4	6	9

Hoeveel stablefordpunten weet Kennie op deze ronde te behalen?

17 stablefordpunten

4. In welk jaar zijn hier de Olympische Spelen gehouden?

2000 (Sydney)

2008 (Beijing)

1976 (Montreal)

1936 (Berlijn)

5. Tijd voor (ont)spanning voor de organisatie van de Wèttegij't Quiz. Samen gaan ze proberen om een bal in het doel te krijgen. Hieronder staan doelafmetingen. Welke sporten horen bij deze doelafmetingen?

7,32 m breed en 2,44 m hoog : Voetbal

3,66 m breed en 2,14 m hoog : Hockey

5,6 m breed en 3 m hoog : Rugby

3 m breed en 2 m hoog : Handbal

6. Welke sponsornaam hoort op dit shirt te staan?

1. Qatar Airways
2. Essent
3. Etihad Airways
4. Afas Software

7. Wat is de overeenkomst van de sporters op de vier onderstaande foto's?





Wereldkampioen in 1994

Wat hebben onderstaande afbeeldingen specifiek in 2015 met elkaar te maken? Geef ook aan welke namen er bij deze afbeeldingen horen.



All Black

Springboks

The Wallabies

Los Pumas
Union Argentina de Rugby

Overeenkomst: Staan in de halve finale WK Rugby 2015

8. Welke sporten worden er op deze velden gespeeld? En met hoeveel spelers per team sta je op het veld?

Badminton

Basketbal

Cricket

1 of 2 spelers

5 spelers

11 spelers

9. Deze prijzen willen wij wel graag winnen! Maar van welke sporten zijn onderstaande belangrijke prijzen?

Golf	Cricket	IJshockey	Voetbal

Wat zijn de namen van deze sportprijzen?

The Ryder Cup	The Ashes Urn	The Stanley Cup	Henri Delaunay

10. Sjoelen

Het is een regenachtige zondagmiddag en de Wèttegij't organisatie wil effe wat anders doen. Ze besluiten om een sjoelmiddag te organiseren waarbij er gesjoeld wordt volgens DOEN! spelregels. Het is dan niet de bedoeling om alle stenen in de "4" te schuiven, maar om de stenen zoveel mogelijk te verspreiden over de vakjes. Dan krijg je bonuspunten. Zie hierbij een voorbeeld met 13 stenen.

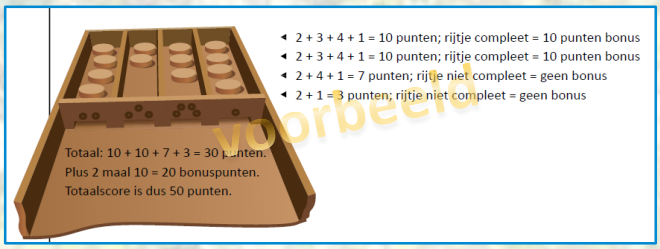

Sjoel en Slimmie gaan samen het spelletje spelen met 23 stenen. Sjoel kan verschrikkelijk goed sjoelen maar kent de regels niet en schuift alle stenen in de 4. Slimmie kan ook verschrikkelijk goed sjoelen maar speelt wel volgens de DOEN! spelregels en haalt de maximale denkbare score.

Hoeveel punten heeft Slimmie méér dan Sjoel?

20 punten

Categorie 3: Uit de klei getrokken

1. Welke wijn wordt er met de omschrijving bedoeld?

1. Zacht, plomp, pruimen. Grote bessen, dunne schil. Wijd verbreid in Chili.

Merlot

2. Groene vruchten, messcherp, gras. Doordringende aromatische, zeer verfrissende wijn. Kan jong gedronken kan worden. Doet het goed in Nieuw-Zeeland.

Sauvignon Blanc

3. Onschuldig, vaak flexibel. Populairste wijndruif. Heeft gouden glans. Groeit op veel plekken.

Chardonnay

4. Wild, framboos, kers, robijnrood, viooltjes. Vooral uit Bourgogne.

Pinot Noir

5. Fijngevoelig, sprekend, goede geur, karaktervol, zelden eikig. Begint meer in de mode te raken.
Riesling

2. Jam(m)ie?! Noem de officiële namen van deze recepten/gerechten.

Vanille Cheesecake met frambozensaus

Soep van voorjaars-groenten en bonen

Jalfrezi van groenten

Gegrilde forel met mosterd-havermout

3. Welterusten! Zet de dieren op volgorde van slaaptijd per dag. Geef het dier dat het minste slaapt per dag nummer 1.

Gordeldieren	10	Paarden	1
Vossen	4	Olifanten	2
Mierenegels	8	Beren	3
Koala’s	9	Chinchilla	7
Kleine panda	5	Kinkajoes	6

4. Noem de namen van deze dieren.

Kameleon



Impala

Prairiehond

Schubdier

5. DOEN! wil graag eens een gezonde activiteit organiseren. Maar wat kunnen we dan het beste op tafel zetten? Zet onderstaande producten op volgorde van vet per 100 gram. Geeft het product met het minste vet nummer 1.

Mc Donalds groenteburger	8	Witte bonen in tomatensaus, Bonduel	1
Krentenbol	5	Muisjes, de Ruijter	2
Nescafé Irish coffee	3	1 gekookt kippeneitje	6
Pizza Hawaï Pizza Hut	7	Wiener Schnitzel bereid	10
Alpro soya melk	4	Zonnebloempitten	12
Moorkop	9	Duyvis knabbelnoten	11

6. Hieronder zie je verschillende vlaggen. Wat is de officiële taal en officiële munteenheid van de landen/staten behorende bij deze vlaggen?

Engels
Barbados Dollar

Russisch, Kazachs
Tenge



Divehi
Rufiyaa

Italiaans, Latijn
Euro

Engels, Swati
Lilangeni

Bosnisch, Servisch, Kroatisch
Bosnische Mark

7. Welk vogeltje woont er in onderstaand huisje?

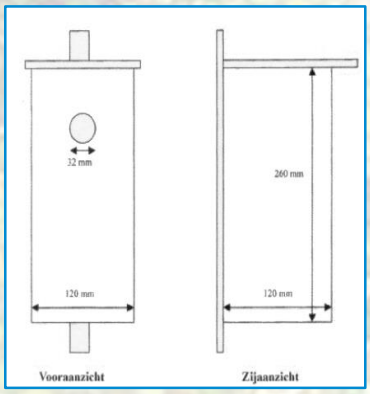

Koolmeesje

Weet je het ook nog als je alleen de afmetingen krijgt?

Gat: 8-10 cm en 26x12x12: Witte Kwikstaart

Gat: 35 mm en 21x3x11x12: Huismus

Gat: 7 cm en 18x18x76: Steenuil

Gat: 26-28 mm en 26x12x12: Pimpelmees

Gat: 150 mm en 30x30x30: Kauw

8. Proost! Wij lusten er wel eentje, maar wat drinken we hier?

Vincent Bier

Waar wordt deze drank in flessen gedaan?

De Heidebrouwerij b.v. te Ede

Hoeveel procent alcohol zit er in dit drankje?

6,2 %

Hoeveel procent alcohol hebben de volgende dranken?

Jopen bokbier	6,5 %
Noilly Prat Original Dry	18 %
The Black Grouse Alpha Edition	40 %
Pommery Summertime	12,5 %
Fever Tree Indian Tonic Water	0 %

9. Hieronder zie je delen van keukengerei. Noem bij elke foto de juiste naam.

Spaghetti lepel

Pommes-Parisienneboor

Blikopener

Pizzasnijder

Aspergelepel

Siliconen bakkwast

Kurkentrekker

Dunschiller

10. Het menselijk lichaam. Wat zijn de juiste antwoorden op onderstaande vragen?

1. Hoeveel centimeter wordt je haar gemiddeld in een jaar langer?
   12 cm
2. Uit hoeveel botten is je ruggengraat opgebouwd?
   26 botten
3. Uit hoeveel lagen bestaat de huid?
   3 lagen
4. Hoeveel smaken proeft de tong?
   4 smaken (+umami)
5. Hoeveel speeksel maak je per dag aan?
   1 tot 1,5 liter
6. Welk orgaan wordt ongeveer 3 x zo groot na het eten?
   De maag
7. Hoeveel liter bloed heeft een volwassene?
   5 liter
8. Hoeveel wegen je hersenen?
   Ongeveer 1/50 van je totale lichaamsgewicht
9. Hoeveel bloed kunnen de nieren zuiveren?
   150 tot 200 liter bloed per dag
10. Hoeveel ribben heeft een mens?
    12 ribben

Categorie 4: Wie kent Wette?

1. Dorpsraad Nederwetten.

Inmiddels zijn er 3 dorpsraadverkiezingen geweest. Bij welke verkiezing, op welke datum hebben de meeste stemgerechtigden hun stem uitgebracht?

29 oktober 2003	19 maart 2014

Wat was de kiesdrempel in procenten?

40 + 1 %	40 + 1 %

Hoeveel % van de stemgerechtigden heeft zijn/haar stem uiteindelijk uitgebracht?

73,71 %	64,7 %

Wie van de 13 kandidaten zijn deze verkiezingen gekozen in de dorpsraad?

Bert de Vries	Piet Renders Jr.
Wendy van der Heijden	Theo van den Tillaart
Jan van Stiphout	Jan Friso Groote
Jan Friso Groote	Leo Evers
Peter Thoonen	Brian de Bart
Toos Verbruggen	Henri Schouten
Piet Renders	Linda Nouwens

Noem de naam van de voorzitter(s) van deze ambtstermijn.

Bert de Vries	Piet Renders Jr.
Wendy Renders-van der Heijden	

2. Advertenties bestaan al heel lang. Welke bedrijfsnaam ontbreekt op onderstaande Nederwettense advertenties?

Fa. Gebr. RAAIJMAKERS

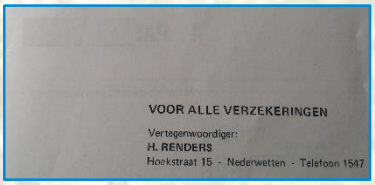

INTERPOLIS



Cafe Coolen

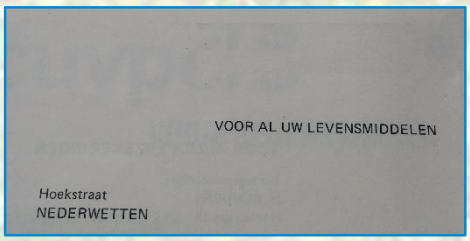

P. PASMANS

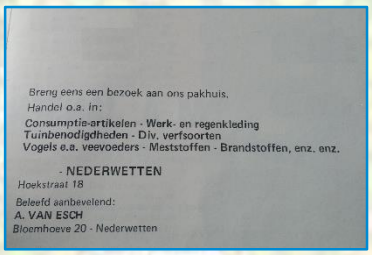

Coop Altijd Voordeel

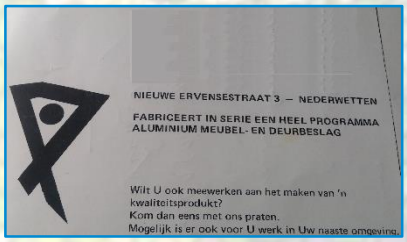

METAALWAREN SANDERS

3. Welke personen gedenken we op de onderstaande afbeeldingen?

Ter herinnering aan de Eerwaarde Broeder

geboren te Nuenen 19 oktober 1917, geprofest in de Orde van het H. Kruis 1939, vertrokken naar de Kongo-Missie 1949 en daar gestorven 30 mei 1965

Broeder Lambert was een van hen, die slachtoffer werden van hun plichtsbewustzijn omdat zij ook in gevaarvolle omstandigheden hun missie en hun christenen niet wilden verlaten. Samen met dertig missionarissen werd hij te Buta door opstandelingen vermoord. Dit betekende 't plotselinge, wrede einde van Lambert's mooie klooster- en missionarisleven tegelijk ook 't onverhoopte einde van maandenlange, bange onzekerheid in gijzeling

Deze eenvoudige Brabantse jongen, die van huisuit 'n grote arbeidszaamheid meekreeg, heeft het nooit gezocht in opzienbarende prestaties. Maar voor hen, die hem mochten leren kennen of met hem samenwerken, was hij een „held" door zijn „broeder-zijn" voor blank en zwart in de meest diepe en volle zin van het woord.

„Niemand toch heeft groter liefde dan die zijn leven geeft voor zijn vrienden". Dat Lambert die liefde gehad heeft daarvan getuigt niet alleen zijn dood maar waren wij reeds overtuigd door zijn diep geloof en bescheiden goedheid, die hem maakte tot een voorbeeldig kloosterling, een prettig medebroeder en een beminde missionaris voor zijn Kongolees volk. Daarom durven wij met 'n zekere gerustheid veronderstellen, dat hij in navolging van zijn voorbeeld: Broeder Christus voor zijn moordenaars bad: „Vader, vergeef het hun want ook zij weten niet wat ze doen".

Laten wij bidden, dat de Heer zijn levensoffer moge aanvaarden tot vergeving van tekortkomingen, die hij als mens zeker gehad heeft, tot zegen van zijn bedroefde familie en vrienden, die hem zozeer tot steun waren in zijn missiewerk, vooral ook tot redding van de zo zwaar getroffen Kerk in Kongo.

Lambertus Schoenmakers

Zij hebben mijne handen en voeten doorboord en al mijn beenderen geteld. Ps. XXI: 17-19

GMZ-12

Requiescat in Pace

BID VOOR DE ZIEL VAN ZALIGER

Echtgenoote van
Adrianus Dijstelbloem,
Lid der Derde Orde van den H. Franciscus,
geboren te Woensel 31 Maart 1870
en overleden te Nederwetten 5 Mei 1935.

Troost u allen die mij bemint, immers ik verlaat eene wereld vol ellende om het rijk der eeuwige vreugde in te gaan.
H. Cath. v. Siënne.

Hiervan toch is al wie God dient verzekerd, dat zijn leven, zoo het beproefd wordt, zal gekroond worden. Tob. 14, 10.

Dierbare Echtgenoot en Kinderen, na weinig tijds ziet gij mij weder in het land der levenden. Ps. 26, 19.

Toont door uwe gebeden dat gij mij bemind hebt. H. Greg.

Ik zal u niet vergeten voor den troon van God, dat Hij immer met u zij en u zegene.
H. Joës. v. h. Kruis.

Zoet Hart van Maria wees mijn heil! (300 dag. afl.)

R. I. P.

Druk J. Koonings Jz., Eindhoven

Joanna Jacoba van Rooij

Petronella Coolen

4. Herken jij ze? Schrijf bij elke foto de 3 namen op van de BN'ers.

1: Wilbert Wiersma

2: Harry Verhoeven

3: Edward Renders

1: Marlon Migchels

2: Aaltje Schouten

3: Annet van Gorp

1: Koen van Gorp

2: Chris v/d Biggelaar

3: Louis Staals

1: Linda Verhoeven

2: Paula Groote

3: Maria Renders

5. Van het bedenken van alle quizvragen, krijgt de organisatie van de Wèttegij't?! Quiz trek. Van de penningmeester krijgen ze 10 euro om samen in Nederwetten te gaan eten. Ze gaan op pad en bij René vinden ze het heerlijk ruiken en dus ze besluiten daar te gaan eten. Allemaal bestellen ze een frietje. De dames besluiten toch maar een 'balansdag' te houden en bestellen er dus maar niets meer bij. De heren trekken zich daar niets van aan en bestellen ieder een kaassoufflé en een viandel.

Hoeveel geld heeft de organisatie dan nog over of tekort?

1 euro over

6. Heilige Lambertuskerk.

Wat is de naam van de Heilige op deze foto?

H. Ambrosius

Waarom staat juist deze Heilige in Nederwetten afgebeeld?

Omdat de eerste pastoor van de oude kerk bijenkorven vlocht.

Welke naam staat er helemaal onder in het raam?

H. Sloots – van de Ven D. D.

Wat is de reden dat deze naam hier staat?

Het raam is geschonken door Henk Sloots bij zijn 25 jarig jublieum als kerkmeester (op 30 januari 1918)

7. Een aantal DOEN! leden maakt een tochtje door en rondom Nederwetten. Op verschillende plekken denken ze terug aan 'vroeger'. Op welke locaties zijn ze geweest? Noem de straatnaam met huisnummer of ander geografisch kenmerk.

Broekdijk 13

Oude Sluisbrug, Hooijdonk

Soeterbeekseweg 30a

Agnes Hoeve, Hooijdonk
(Veehuijzische Hoeve) Kloosterkelder

8. Wie zoeken we? Schrijf de voor- en achternaam op.

1. Judith de Brouwer

2. Stijn Jaspers

1. Diny de Vries

2. Ella de Goeij

9. Bijzondere gebeurtenissen of jaartallen. Je hebt ze in elk dorp of stad. Maar wat is er speciaal aan deze Nederwettense data?

- 1976 en 1992 : De enige twee Boomfeestdagen waar de Sint Jozefschool aan mee heeft gedaan. (Sinds de officiële Boomfeestdagen)
- 18 mei 1895 : Eerste steen van de kerk
- 4 april 2004 : Boom 100 jaar Martha Rooijackers- de Louw
- 1786-1815 : Willem Sengers bestuurder gemeente Nederwetten
- 1924-1963 : Harrie Janssen bijna 40 jaar hoofd van de lagere school
- 24 december 1969 : Geboorte 10.000ste inwoner van Nuenen, Lieske Horseling (Hoekstraat, Nederwetten)
- Oktober 1884 : Schilderdatum populierenlaantje Van Gogh op de Eikelkampen.

10. Afgelopen jaar zaten een aantal straten in Nederwetten een avond en ochtend zonder stromend kraanwaterwater. De waterleiding was kapot gegaan. Brabant water moest dit komen repareren. Wanneer was dit?

Vrijdag 13 en zaterdag 14 november 2015

Waar vonden de herstelwerkzaamheden plaats?

Voor de deur bij Hoekstraat 33a (Jan en Maria Renders)

Categorie 5:
Hedde ut al geheurd of gezien?

1. Candlelight. Wat is de titel van het originele lied en de naam van de artiest?

Vend om...
Alle nu og da får jeg en lille smule forskrækket,
og så ser jeg udseendet i dine øjne
Vend om, lyse øjne
Hvert nu og da jeg falder fra hinanden
Vend om, lyse øjne
Hvert nu og da jeg falder fra hinanden

Bonnie Tyler – Total Eclipse of the heart

E poi una mattina, ha detto, tuo padre con te ;
Il vento è favorevole, così prendo il mio aquilone lungo
In una mano un aquilone, nell'altra una lettera
Non lo capivo, ma poi ha detto mio figlio ama
Ho una lettera per mia madre qui
Alto nel cielo

André Hazes – De vlieger

I see people bending your back
As if life marked zero
I'm 15 and I tell you
Wo wo I love life
Believe it, I too
Flashes of hope, insomnia
But in total, the addition í
I love the horizon

Sandra Kin – J'aime la vie

ne, Bitsy peh , jer ništa
neće spadati vaš bicikl
je vaš lijeni haidewiets
piti sa svojim hlače prema dolje
mlijeko od kokosa
vi ste, naravno, visoka

Kinderen v kinderen - Op een onbewoond eiland

2. Hoe heten deze bekende schilderijen, wie heeft het geschilderd en hoe heet de periode waarin het doek is geschilderd?

Waterlelies / Les Nymphéas
Claude Monet
Impressionisme

The Weeping Woman
Pablo Picasso
Cubisme (1937)

De Staalmeesters
Rembrandt van Rijn
De Gouden Eeuw

De Schreeuw
Edvard Munch
Expressionisme

3. Uit welke begintunes van televisieprogramma's voor kinderen, komen deze zinnen?

En een fietsband repareren?	Boes Boes
Zon of regenvlagen	Pieter Post
Het eind is zoek	Barbapappa
Langs de wijde wereld wegen	Pipo de Clown en Mammaloe
We kunnen gaan duiken tussen de vissen	Chloe's Wereld

4. Welke 5 liedjes zoeken we? Noem de titel en de naam van de (uitvoerende) artiest.

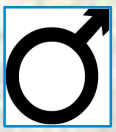

It's raining men
Weather Girls

Boom Boom Boom
Venga Boys

De hoogste tijd
André Hazes

Paint it black
Rolling Stones

Steal my girl
One DIrection

5. Voor de kleintjes. Van welke televisieseries zijn deze afbeeldingen?

1. Thundercats
2. Eek The Cat
3. Noddy
4. Fairly odd Parents
5. The Jetsons
6. Dommel
7. Dokter Snuggels
8. Teddy Ruxpin

6. Nummer de blikjes in volgorde van jaartal, geef het oudste blikje nr 1. Zet vervolgens ook de juiste naam bij de afbeelding.

- Economische crisis - Eigenwijs, the sky is the limit - Disco - Right now
- Hippies en Wood stock - Toenemende welvaart - It's cool to be clear

6
It's cool to be clear

4
Hippies en Wood stock

2
Toenemende welvaart

7
Right now

1
Economische crisis

3
Eigenwijs, the sky is the limit

5
Disco

7. Zoek het plaatje. Welke bekende namen horen bij deze plaatjes?

Ben Saunders

Robbie Williams

Arie Boomsma

Angelina Jolie

David Beckham

8. Welke bekende reclame-uitspraken kent u nog? Vul de bedrijfsnaam in.

1. De enige échte
2. Wij doen het graag en goed
3. Melk is goed voor elk
4. Alleen als 'ie ijs- en ijskoud is
5. Afrika, gevaarlijk dichtbij
6. Voor binnen en buiten plezier
7. Geeft je energie
8. Zuinige zekerheid
9. Goed gedaan jochie

1. Chocomel
2. Van Gent en Loos
3. Nederlands zuivelbureau
4. Jägermeister
5. Beekse Bergen
6. Boerenbond
7. Mars
8. Emté
9. Paturain

9. Welke van de vier showbizz-namen hoort niet in het rijtje thuis? Vertel ook waarom deze er niet bij hoort.

Jan Smit / Frans Bauer / Guus Meeuwis / Thomas Berge

Geen real life soap

Caroline Tensen / Tooske Ragas / Mariska van Kolk / Nicolette van Dam

Zij geeft "Wie ben ik?" niet gepresenteerd

10. James Bond. Hoe goed ken jij hem?

Waar komt de naam James Bond vandaan?

Ian Fleming heeft de naam van de schrijver van een vogelgids genomen; Amerikaan ornitholoog James Bond.

Waar werkt James Bond voor?

Bond werkt voor de Royal Navy Reserves/M16.

Welke vijand van Bond was de eerste die door zijn eigen mensen werd vermoord?

Le Chiffre, (een rol van Mads Mikkelsen in "Casino Royale" (2006), wordt vermoord door Mr. White, die bij de criminele elitegroep Quantum blijkt te horen.)

Wat is de enige film waarin Bond geen auto bestuurt?

Sean Connery heeft als Bond een chauffeur in "You Only Live Twice" (1967).

Wie was de jongste acteur die de rol van Bond op zich nam en hoe oud was hij toen?

George Lazenby (Bij het filmen van "On Her Majesty´s Secret Service" in 1969 was hij met zijn 30 jaar de jongste Bond)

Wat was in de boeken Bond's signature drink?

Scotch & Soda

En daarna in de films?

Shaken (not stirred) Martini / later Heineken bier

Wat is de enige James Bond film waarin het personage M niet voorkomt?

In ´For Your Eyes Only´ (1981) was M niet aanwezig (omdat de rol zou worden gespeeld door Bernard Lee, die aan maagkanker overleed.)

Wat is het fictieve bedrijf dat James Bond regelmatig noemt?

Universal Exports (werd in "You Only Live Twice" (1967) vaker genoemd en in ´Quantum of Solace´ was een visitekaartje te zien.)

Welke actrice speelde in 3 bondfilms en welke films zijn dat?

Maud Adams verscheen als Bondgirl in "The Man With The Golden Gun" (1974) en "Octopussy" (1983), terwijl ze een bijrolletje speelde in "A View To A Kill" (1985).

Categorie 6: Gewoon doen!

1. Wat was het kledingtenue van KPJ Nederwetten tijdens de sportdagen in de jaren 90? Maak hierbij een zo volledig mogelijke omschrijving.

Wit t-shirt
Witte sokken
Zwarte broekje/rokje
Witte sportschoentjes

2. Wie zijn de sponsors van deze handbalshirts?

F. Hoeks Reparatiewerkplaats of Vandenberg foto

Toon de Brouwer auto's

Gerton Meubelen

De Win Installatiegroep

Zet ze in volgorde, begin bij het oudste shirt.

2 – 1 – 3 – 4

3. Hoe heette het clubblad van KPJ Nederwetten?

De Break Out

In welk jaar is de laatste uitgave verschenen?

(februari) 2008

Wie schreef de rubriek "Opa-Handbal"?

Ad Donkers

4. Teken het laatste KPJ Nederwetten logo.

Wie heeft dit logo ontworpen?

Katelijne van Asten-de Brouwer

5. Waar werd de sportdag georganiseerd toen de meisjes van KPJ Nederwetten de eerste prijs behaalden met de muziekoefening?

In Nederwetten

In welk jaar werd deze prijs behaald?

2003

Op welk onderdeel behaalde KPJ Nederwetten tijdens de sportdagen keer op keer de eerste prijs?

Bokkenrace

6. In welk jaartal werd het evenement 'Touwtrekken over water' voor het eerst georganiseerd door onze vereniging?

1979

Welk herenteam won in 2007 de finale?

Koekoek is back in town.

Welk damesteam ging er in 2008 met de eerste prijs vandoor?

De Bieras

7. Wat is de naam van het handbalteam van DOEN! Nederwetten?

Nederpeel

Hoe is deze naam tot stand gekomen?

Combinatie van Nederwetten en Odiliapeel

Waar blinkt dit team al jaren in uit?

Het winnen van de sportiviteitsprijs.

8. Hoeveel jeugdleden heeft DOEN! op 1 januari 2016?

20 jeugdleden

Hoeveel kost het lidmaatschap voor de kinderen per schooljaar?

€ 25,-

Welke kampeerboerderij is het meest bezocht door KPJ Nederwetten?

De Kastanjes, Elsendorp

9. DOEN! kan niet zonder haar vrijwilligers.

Wie roepen al jaren de nummers om bij het halfjaarlijks kienen?

Marieke Rovers-van Lankvelt en Wendy Renders-van der Heijden

Wie is de huidige voorzitter van DOEN! Nederwetten?

Vacature!

Welke vier dames zetten zich al minimaal 7 jaar onafgebroken in voor de jeugdleden van DOEN!?

Carolien Sengers
Dorine Renders
Mariëlle Renders
Yvonne van Kemenade

Wie is ons oudste lid en nog altijd actief als sport(st)er en vrijwillig(st)er?

Ad Donkers

Wie heeft er voor onze vereniging een mooie website gebouwd en onderhoudt deze al jaren?

Lisanne Braat

Noem 3 bestuursleden die in de statuten van KPJ Nederwetten uit 1979 genoemd zijn.

Johannes Gertrudus Maria van Rooy, Anna Petronella Maria Meyers, Regina Bernadina Theodora Migchels, Johanna Gerarda Maria van den Berk, Adriana Johanna Maria Meyers, Catharina Anna Carola van der Heijden, Wilhelmina Maria van Baren.

Een persoon is toch eigenlijk wel een beetje de ‘Voice van DOEN!’. Bij verschillende DOEN! evenementen hoor je al jaren zijn/haar stem door de microfoon. Over wie hebben we het?

Wies Sleegers

10. DOEN! leden waren dit jaar met carnaval goed vertegenwoordigd. Zij vervulden een belangrijke rol als prins(es) of adjudant. Noem de namen van deze leden.

Maikel van Kemenade
René Manders
Lilian Bastiaans-de Brouwer
Anouk Arts

Noem van elk bovengenoemd lid de carnavalsnaam.

Maikel: Adjudant Martello
René: Adjudant Mandero
Lilian: Adjudant Piekfijn
Anouk: Jeugdprinses Anouk

Naast een carnavalsnaam hebben zij ook officiële onderscheidingen. Maak vanavond van elke onderscheiding een foto, waarbij minimaal één teamlid en de onderscheiding duidelijk zichtbaar zijn. Plak de foto('s) hieronder en vermeld de naam van het DOEN! lid.

Voorbeeld van de
3 verschillende onderscheidingen.

SSSSST!

Over deze categorie vertellen we jullie niets! Dit is een geheime opdracht! Hieronder staan de regels en tips voor deze opdracht:

- Stuur één afgevaardigde van je team naar de Koppelaar.
- Deze afgevaardigde moet exact om 21.00 uur aanwezig zijn.
- Als je te laat bent, mag je niet deelnemen aan deze opdracht en krijgt je team geen punten.
- De afgevaardigde moet echt alleen komen en mag géén contact hebben met andere personen.
- Je mobiele telefoon enz. dient bij binnenkomst te worden ingeleverd.
- Neem je teamnummer mee.
- De opdracht zal circa een half uur duren.

Met logica kom je van A naar B, met fantasie overal!

Categorie 7: Sponsorvragen

1. Autobedrijf van den Berk is de naam die staat voor service en kwaliteit. Wanneer is dit autobedrijf eigenlijk opgericht?

19 mei 2006

2. U kunt er terecht voor alle mogelijke werkzaamheden aan uw personenauto en bedrijfsauto zoals: onderhoud, reparatie, APK- keuringen, airco onderhoud en reparatie, auto- en ruitschade. Wat kost daar een losse APK keuring voor een Volkswagen Polo vandaag de dag?

€ 35,-

3. Autobedrijf van den Berk is gevestigd in Schijndel. Door bepaalde reden is dit bedrijf in aanraking gekomen met Nederwetten. Wat is die connectie met Nederwetten?

Getrouwd met Joyce van den Berk-van Esch

4. Dit logo is niet compleet, kun je achterhalen van welke sponsor dit logo is?

Swinckels Cateringservice

5. Op zijn huis staat de naam BROGILO. Wat is, in deze setting, de betekenis hiervan?

Breugel

6. Een specialiteit is vernoemd naar deze naam, noem de naam van deze specialiteit?

Brogilo warme ham met mosterdsaus

In de verre omstreken bekend, nog sterker; het dorp Nederwetten kent men vaak van ‘De Kruik’ en het ‘Um en Um spel! We gaan terug in de tijd:

7. Oorspronkelijk stond op deze plek een boerderij die ook een kruidenierswinkel, een café en een bakkerij had. Wie was de eerste eigenaar van het pand?

Antoon van Rooij

8. Vanaf 1956 werden de huizen aan de Hoekstraat genummerd. Na die wijziging werd het adres Hoekstraat 52. Wat was voor die tijd het adres van dit pand?

A2

9. Wat is de exacte datum dat de naam veranderd werd van ‘bar-discotheek Herberg De Kruik’ in Brasserie / Café “de Kruik”?

17 mei 1998

Categorie 8: Niks te doen?!

1. Noem de namen van deze muziekinstrumenten.

1

2

3

4

5

1: Sitar
2: Cornet
3: Djembé
4: Mandoline
5: Klaroen

2. Hoe heet de kinderboekenserie waar een klas les krijgt van een stagiair?

Mees Kees

Deze serie is deels verfilmd. Welke acteur speelt hierin de hoofdrol?

Willem Voogd

Welke titels uit deze kinderboekenserie horen bij de onderstaande plaatjes?


1

2


3

4

5

6

7

1. Een pittig klasje
2. De sponsorloop
3. Bloedjelink
4. Gaat verhuizen
5. Op kamp
6. Op de planken
7. Op de kast

3. Los de puzzel op.

3 : 6	4 4	2 - 5	3	21 x 7	1 1	2 2
2	3 - 7	4	1 - 6	3	8 + 5	1 1
20 x 4	7 + 6	1	5	4 - 2	3	4 - 7
5	8 + 1	7	4 : 4	6	2 2	3
4 - 7	6 x 2	3	1	20 x 5	4	24 x 6
3	2 - 5	14 x 2	7	6 : 1	6	4
1 1	3	8 + 6	2	11 + 4	7	5 5

4. Maak een punniksliert van exact 20 cm lang met alleen de 3 primaire kleuren. Lever deze samen met het quizboek in. Zorg dat de sliert voorzien is van je teamnummer.

5. Van welke gezelschapspelletjes komen deze afbeeldingen?

1: Triominos

2: 30 Seconds

3: Wie is de ezel?

4: Levensweg

5: Monopoly

6: Qwixx Deluxe

7: Regenwormen

8: Wie is het?



9: Boonanza

10: Mikado

6. Maak een leuke teamfoto met als thema: “Nederwetten”. We verwachten minstens 10 teamleden op de foto. Plaats de foto op de facebook-pagina van DOEN! Nederwetten o.v.v. je teamnaam en –nummer. Stuur je foto ook naar quiz@doennederwetten.nl. De opdracht dient om 23.00 uur te zijn volbracht.

7. Handige Harry’s opgelet: Maak van een houten balk een exacte driehoek (van minimaal 50 cm) zonder schroeven of spijkers. Lever de driehoek aan het einde van de avond in samen met het quizboek. Zorg dat je teamnummer zichtbaar is.

8. Wat is het nummer van onderstaande legodoosjes?

360

10211

5976

4002015

10242



4556

2254

9. Bij het quizboek hebben jullie een schuifpuzzel gekregen. Los deze puzzel op en lever hem aan het eind van de avond weer in, samen met het quizboek. Om het iets gemakkelijker te maken, staat hiernaast een afbeelding van de juiste oplossing.

10. Codeplaatje. Maak de genummerde vakjes zwart aan de hand van de legenda.



Noem de exacte naam van wat er is afgebeeld: (Zilverrug) Gorilla

Categorie 9: Hersenkrakers

1. DOEN! wil weer een groot feest gaan geven en heeft daarvoor natuurlijk drank nodig. De vereniging heeft 10 koelwagens gehuurd. In de koelwagens zitten allemaal dezelfde kratjes met drank. In 9 van de 10 koelwagens zitten kratten die precies 10 kilo wegen. In 1 koelwagen zitten kratten van 11 kilo. De kratten hebben allemaal dezelfde afmeting. Je hebt een weegschaal en mag maar 1 keer wegen. Het aantal kratten per koelwagen is zelf te bepalen. Hoe weet je in welke koelwagen de kratten van 11 kilo zitten?

Neem van de eerste koelwagen één krat, van de tweede koelwagen twee kratten, …… en van de negende koelwagen 9 kratten. Leg dit op de weegschaal en lees de eenheden af. Het aantal eenheden komt dan overeen met de koelwagen waarin de kratten van 11 kilo zitten.

2. Denk hier eens hardop over na. Kun jij deze hersenkrakers oplossen?

Wat is het volgende antwoord?

3
13
1113
3113
132113

1113122113

Wat is het laatste antwoord van deze reeks?

7
17
1117
3117
211317

3122331417

3. Welke drie woorden worden hier cryptisch uitgebeeld?

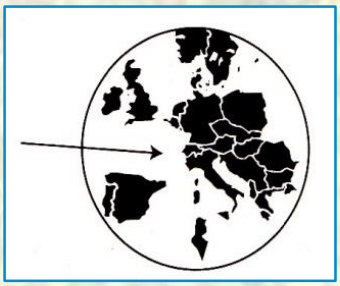

Landweg



Voorbeeld



Aasgier

4. Vervang de letters door cijfers, zodat er een juiste berekening ontstaat.

F = 4	×	JJAE = 2268	=	HGDJ = 9072
+		×		-
JJAD = 2267	-	J = 2	=	JJAC = 2265
JJDB = 2271	+	FCKA = 4536	=	AEGD = 6807

5. Raadsel.

Wittnie en Kennie zijn een stelletje. Kennie is net zo oud als Wittnie zal zijn wanneer Kennie drie keer zo oud is als Wittnie was toen Kennie een kwart zo oud was als hun huidige leeftijden bij elkaar opgeteld. Wittnie was 7 jaar geleden net zo oud als Kennie was toen Wittnie half zo oud was als zij over 25 jaar zal zijn. Hoe oud zijn Wittnie en Kennie?

Wittnie = 51 jaar Kennie = 57 jaar

6. De oplossing van deze rebus is een regel uit een songtekst. Wat is de titel van het nummer en bij welke artiest hoort het lied?



Pa – Doe Maar

7. Je moet er maar net opkomen!

Hoe kan je 28 van 29 aftrekken en toch 29 overhouden?

Op een scheurkalender / Nummertje bij bijvoorbeeld de slager/bakker

In de touwtrekstraat staan 100 huizen. De huizen zijn genummerd van 1 tot en met 100. Hoeveel negens staan er in totaal in al deze nummers?

20 negens

Het is van jou, maar je vrienden gebruiken het zonder het te lenen, te kopen of te stelen. Ze gebruiken het nog meer dan jij zelf. Wat is het?

Je naam

Mijn dochter is vijf keer zo oud als mijn zoon, en mijn vrouw is vijf keer zo oud als mijn dochter. Ik ben twee keer zo oud als mijn vrouw. Terwijl oma, die zo oud is als wij allemaal bij elkaar, vandaag haar 81ste verjaardag viert. Hoe oud is de dochter?

5 jaar

Is het in Rusland verboden dat een man met de zus van zijn weduwe trouwt?

Kan niet. Een man kan niet met de zus van zijn weduwe trouwen, omdat hij zelf dood is.

8. Welke 3 woorden staan hier afgebeeld? Los de letterrebus op.

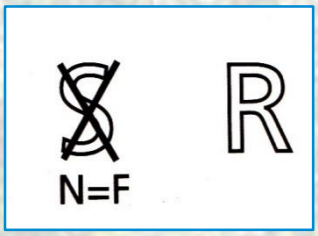

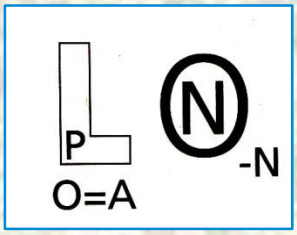

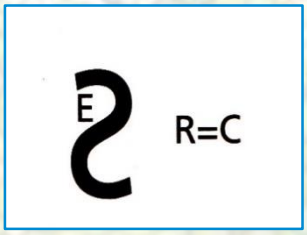

Fietser

Lampion

Seconde

9. De hypotheekrenteaftrek zorgt voor veel discussie. In de politiek bestaat grote verdeeldheid over het handhaven, aanpassen of afschaffen van deze regeling. Wanneer ontstond de hypotheekrenteaftrek?

1983

Saskia koopt haar droomhuis voor € 368.000,-. Naast haar spaargeld heeft ze een hypotheek nodig van 90% van de aankoopsom. Over dit bedrag moet ze 4.2% rente betalen. Hoe hoog zijn dan de maandlasten?

€ 1.159,20 bruto per maand

Van de belasting krijgt ze per jaar €4.636,80 terug. Wat is haar hypotheekbedrag netto per maand?

€ 772,80 netto per maand

10. Auto te water!

De kraanwagen op de havenkade hijst langzaam de personenauto -een oude Fiat waarvan de portieren gesloten zijn- uit het zwarte water. Van alle kanten druipt het water uit gaten en kieren. Voorzichtig wordt het voertuig op de kade gezet. Commissaris Slim, die van op enige afstand op de kade heeft staan toekijken, loopt naar het rechter portier en kijkt door het vuile raam, dat niet gebroken is, naar binnen. Hij ziet op de passagiersstoel een lichaam voorover in de autogordel hangen. Als hij het portier opentrekt, gulpt een golf stinkend water naar buiten. Verschrikt springt de politieman achteruit, maar hij kan niet voorkomen dat een deel van het water over zijn schoenen stroomt. Soppend stapt hij weer dichter naar de Fiat toe, stelt vast dat de enige passagier dood is en bekijkt het interieur. Er valt niets bijzonders te zien, behalve dat de handrem niet aangetrokken is. In de kofferbak ontdekt hij een grote kist, die na openen een groot aantal boeken blijkt te bevatten. Hij heeft genoeg gezien en geeft opdracht aan zijn collega's van de technische recherche om foto's te maken, waarna het lijk kan worden afgevoerd. 's Middags, op het politiebureau, spreekt Slim met Boris Boef, een man van 35 jaar en eigenaar van de opgedregde Fiat. De man was 's morgens, nadat het ongeval had plaatsgevonden, niet aanspreekbaar geweest. Hij was de bestuurder van de Fiat en gaf zichzelf de schuld van de dood van zijn vriend Willie Willum. Hij was zo overstuur, dat hij toen nog niet verhoord kon worden, maar nu, uren later, is hij rustiger en vertelt over het ongeval. 'Toen ik vanmorgen op de kade parkeerde, met de voorkant van mijn auto naar het water, heb ik kennelijk niet gezien dat de oever iets afliep. Willie, mijn vriend, en ik waren op weg naar een bespreking met een boekhandelaar wiens bedrijf in de haven ligt. Ik stapte uit, deed mijn portier dicht en liep naar achteren om uit de kofferbak de kist met boeken van Willie te pakken. Willie is namelijk schrijver'. 'Ik zag dat hij nogal dik was', merkt Slim op. 'Ja, hij was de laatste jaren enorm in gewicht toegenomen omdat hij niet voldoende beweging meer krijgt door een rugziekte. Hij loopt daarom moeilijk. Ook kan hij bijvoorbeeld de autogordel niet meer vast en losmaken, dat moet ik altijd doen', reageert Boef. 'Ga door met uw verhaal', spoort de commissaris de man aan. 'Wel, op het moment dat ik achter mijn auto stond, begon die langzaam vooruit te rijden, naar het water toe. Ik zag direct het gevaar waarin Willie verkeerde en rende naar zijn portier om hem uit de auto te trekken. Maar het portier was nog afgesloten. Ik zag Willie achter het raampje pogingen doen zijn gordel los te maken, maar dat lukte niet. Op het ogenblik dat mijn auto over de kaderand verdween, zag ik Willies grote, angstige ogen naar mij kijken terwijl hij nog wat riep.....' Hier wacht Boef even, slikt een paar keer en mompelt: 'Ik zal het angstige gezicht van Willie nooit meer vergeten.....!' Een traan biggelt over zijn wangen. 'Waarom bent u hem niet achterna gesprongen?', vraagt Slim. 'Ik kan niet zwemmen. En bovendien hebt u gezien hoe dik Willie was. Als ik hem al uit de auto had kunnen krijgen, was het niet mogelijk geweest hem te redden. Wij zouden beiden zijn verdronken.' De commissaris kijkt de verdrietige man tegenover hem met gefronste wenkbrauwen aan. Hij vindt het verhaal van Boef niet geloofwaardig.

Waarom vindt Slim Boefs verhaal niet geloofwaardig?

Als de Fiat uit het water wordt opgehaald, kan de commissaris het portier aan de passagierszijde gewoon openen. De bestuurder vertelt echter dat hij Willie had willen redden toen de auto in de richting van het water reed, maar dat hij daarin niet slaagde omdat het portier afgesloten was.

Categorie 10: Zoek ‘t maar uit!

1. Je moet het maar net… meten! Welke Nederwettense straten horen bij onderstaande lengtes?

275 m: Zandstraat

380 m: Nieuw Ervensestraat

190 m: De Esrand

2. Bij wie bellen we aan? Noem de straatnaam en het bijbehorende huisnummer.

Bloemhoefstraat 15

Zandstraat 13

Kerkhoef 7

Bloemhoeve 12

De Koppel 13

Nieuw Ervensestraat 28

3. Wettense weetjes.

Wat is het hoogste nummer dat je tegenkomt op de vaste banken in de kerk?

Nummer 34

Hoeveel drempels heeft Nederwetten binnen de bebouwde kom?

11

Hoeveel lantaarnpalen staan er in de wijk Esrand?

44-45

Hoeveel ronde spijlen heeft de grote poort bij de hoofdingang van R.K.V.V.N?

18

4. De organisatie van de Wèttegij’t Quiz wil graag even uitrusten op een Nederwettens bankje. Weet je ook wat de windrichting is, als je op het bankje zit en je de wind in de rug hebt? Schrijf bij elk bankje de juiste windrichting op.

Zuiden

Oosten

Noord-Westen

Zuid-Oosten

5. De Wèttegij’t organisatie is op zoek naar teamcaptains. Ze bellen aan op de volgende huisnummers. Hoeveel huizen binnen de bebouwde kom hebben de volgende huisnummers?

Huisnummer 39	1	Huisnummer 24	5
Huisnummer 3	14	Huisnummer 9	11
Huisnummer 12	10	Huisnummer 42	1
Huisnummer 4	14	Huisnummer 18	7

6. Vul de onderstaande afbeelding aan met de ontbrekende getallen.

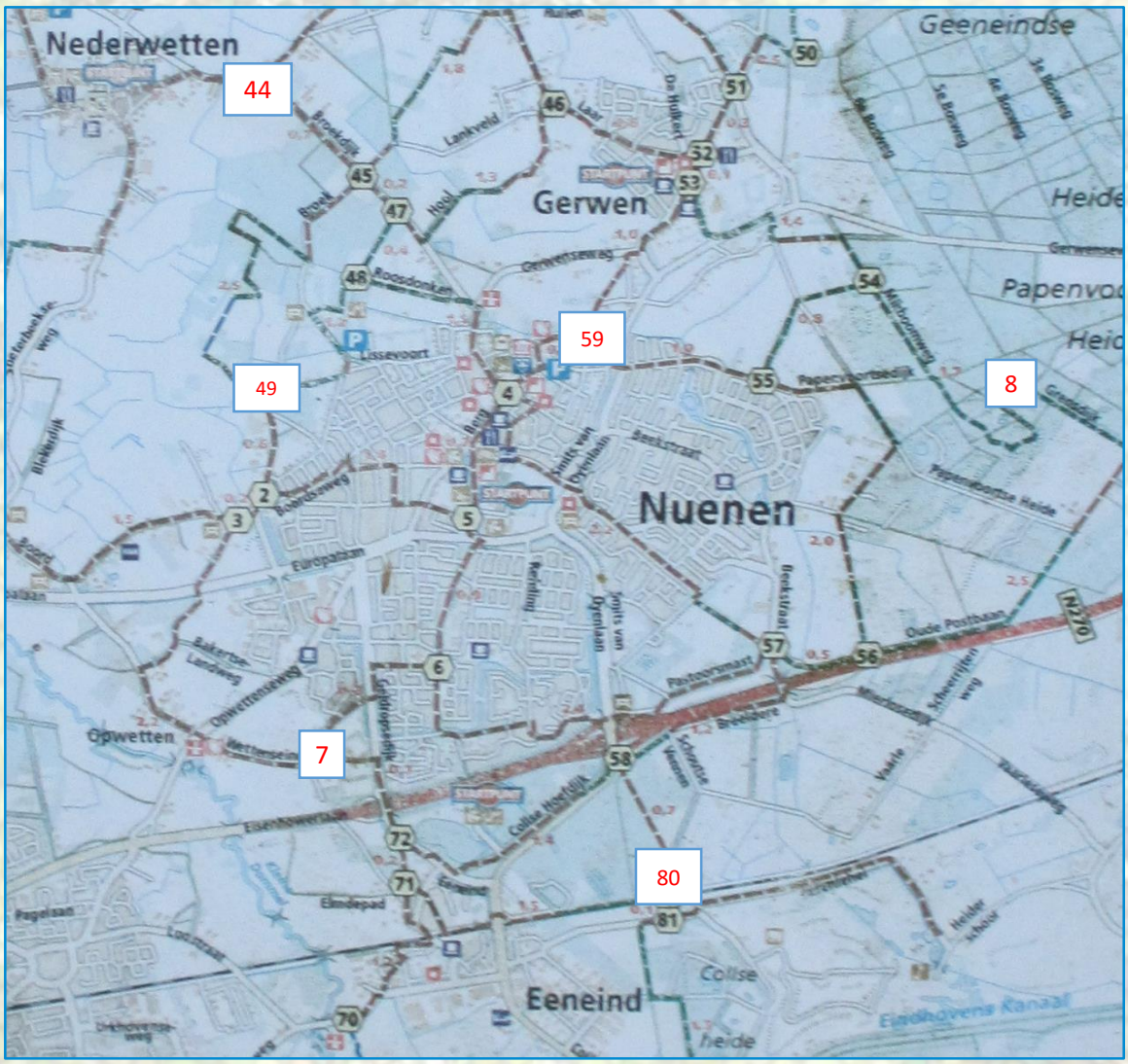

7. Een plekje waar je nog nooit bent geweest? Of het bestaand misschien wel niet van wist? Onderstaande foto’s zijn gemaakt in Nederwetten. Weet jij waar?

Soeterbeekseweg ter hoogte van nummer 24

Bij de parkeerplaats Eikelkampen

Op de parkeerplaats ‘De Kruik’

8. Wist je dat Nederwetten ook een zebrapad heeft? Waar vind je dit zebrapad?

Op de speelplaats van de basisschool

Hoeveel witte strepen telt het zebrapad?

13

9. Optellen voor slimmeriken.

Wat is de som van alle getallen op dit paaltje?

388

Hoeveel kilometer staat er bij elkaar op deze richtingaanwijzer?

12 kilometer

10. Wat staat er op deze bordjes en paaltjes? Vul de ontbrekende cijfers en letters in.

Wij willen alle deelnemers van de Wèttegij't?! Quiz 2016 hartelijk danken!

Vergeet niet om tijdig het evaluatieformulier in te vullen en in te leveren om extra punten te verdienen. Deze extra punten worden bij het totaal opgeteld. Hierdoor maak je nog meer kans om uit geroepen te worden tot 'Slimste Wèttegij't?! team".

We zien jullie dan ook graag tijdens de prijsuitreiking op 12 maart 2016. Op deze avond krijgen jullie de laatste opdracht te horen, waarmee je de laatste belangrijke punten voor je team kunt verdienen. We starten deze avond om 20.00 uur. Tot dan!

DOEN!

KPJ Nederwetten